EXAMEN EN VUE DU DIPLÔME DOUZIÈME ANNÉE

Études sociales 30

Janvier 1987

Alberta
EDUCATION

300.076
E92
1987:
janv.

CDPCOLSP

UNIVERSITY OF ALBERTA
QUAECUMQUE VERA

EX LIBRIS
UNIVERSITATIS
ALBERTENSIS

TOUTE REPRODUCTION DE CE DOCUMENT SOUS QUELQUE FORME QUE CE SOIT
OU SON UTILISATION À DES FINS AUTRES QUE CELLES AUTORISÉES ET
PRÉVUES PAR ALBERTA EDUCATION SONT FORMELLEMENT INTERDITES.

EXAMEN EN VUE DU DIPLÔME
ÉTUDES SOCIALES 30

INSTRUCTIONS GÉNÉRALES

VOUS AVEZ DEUX HEURES ET DEMIE POUR FAIRE CET EXAMEN.

PARTIE A - Elle consiste en questions à choix multiples qui comptent pour 70% de la note totale.

PARTIE B - Elle consiste en une dissertation qui compte pour 30% de la note totale.

Il est recommandé de lire les questions de la Partie B en entier avant de commencer l'examen.

Le surveillant ramassera les feuilles de réponses et les livrets d'examen qu'il fera parvenir à Alberta Education.

NE PLIEZ NI LA FEUILLE DE RÉPONSES NI LE LIVRET D'EXAMEN.

INSTRUCTIONS POUR LA PARTIE A: QUESTIONS À CHOIX MULTIPLES

Il faut répondre à toutes les questions à choix multiples sur la feuille de réponses séparée.

Inscrivez votre nom et autres renseignements sur la feuille de réponses comme vous l'indique le surveillant.

Lisez chaque question très attentivement et choisissez, parmi les réponses, celle qui complète LE MIEUX l'énoncé ou répond LE MIEUX à la question. Trouvez le numéro de cette question sur la feuille de réponses et remplissez l'espace qui correspond à votre choix. Utilisez uniquement un crayon HB.

EXEMPLE

La capitale du Canada est

A. Vancouver
B. Winnipeg
C. Ottawa
D. Montréal

FEUILLE DE RÉPONSES

A	B	C	D
①	②	●	④

Si vous voulez changer une de vos réponses, veuillez d'abord effacer complètement la première marque que vous aviez faite.

JANVIER 1987

Digitized by the Internet Archive
in 2015

https://archive.org/details/examenenvuedudip00albe

Bibliothèque Saint-Jean
University of Alberta

1. Une des bases essentielles d'une économie de marché libre est

   A. la formation de cartels de prix
   B. la nationalisation des industries clés
   C. l'adoption de lois de protection du consommateur
   D. la garantie des droits de la propriété privée

2. La conviction qu'une transformation de la société est nécessaire pour qu'un État retrouve sa gloire passée est LE PLUS étroitement associée à l'idéologie du

   A. communisme
   B. socialisme
   C. fascisme
   D. libéralisme

3. Le socialisme démocratique peut être décrit comme un système dans lequel

   A. le revenu individuel est maximisé tandis que l'ordre social est assuré dans les affaires économiques

   B. les distinctions de classe sont éliminées et la direction de l'économie est entre les mains d'une élite

   C. des mesures collectives sont prises pour régler les problèmes économiques et sociaux

   D. une élite du monde des affaires est engagée pour diriger la planification gouvernementale

4. Dans la pratique, le communisme a été différent du fascisme en ce qui concerne

   A. la tolérance des partis politiques rivaux
   B. la prise de dispositions en vue de mesures totalitaires
   C. la persécution des éléments dissidents
   D. la collectivisation de l'agriculture

5. Un système de représentation proportionnelle dans un régime démocratique peut se justifier sur la base

   A. que le pourcentage de sièges gagnés par les différents partis concordera plus avec les suffrages exprimés

   B. qu'un parti élira probablement une majorité, garantissant ainsi un gouvernement plus stable

   C. que chaque circonscription contestée aura un nombre égal de députés

   D. que chaque circonscription contestée comportera un nombre égal de votants

Utilisez les affirmations suivantes sur l'économie suédoise pour répondre aux questions 6 à 10.

I La Suède fournit des services publics et universels de soins médicaux, d'hospitalisation et de retraites des vieux.

II La propriété individuelle et la concentration du pouvoir des sociétés sont plus grandes en Suède que dans tout autre pays d'Europe de l'Ouest.

III En Suède, des entreprises privées contrôlent la majorité de la navigation, de la production d'acier, des opérations bancaires et des ventes.

IV Relativement peu d'industries ont été nationalisées en Suède.

V Les impôts en Suède sont fortement progressifs et sont parmi les plus élevés au monde.

-- adapté de *Approaches to Political and Economic Systems*

6. D'après les affirmations, la Suède, dans le fonctionnement de son économie, essaie d'équilibrer les valeurs

A. d'initiative individuelle et de concurrence
B. de liberté individuelle et de bien-être public
C. de devoir patriotique et de progrès personnel
D. de sécuritié économique et de générosité

7. "Dans quelle mesure un gouvernement devrait-il intervenir dans l'économie?" Sur cette question, le gouvernement suédois a

A. incorporé les caractéristiques de l'entreprise publique et privée
B. encouragé l'entreprise publique plus que l'entreprise privée
C. menacé d'enlever les grands monopoles industriels
D. restreint la croissance de l'expansion capitaliste

8. Quelle affirmation les partisans du régime d'entreprise privée utiliseraient-ils LE PLUS PROBABLEMENT comme critique de l'État providence suédois?

A. Affirmation II
B. Affirmation III
C. Affirmation IV
D. Affirmation V

9. D'après ces affirmations, on peut conclure que

A. le système économique de la Suède est nettement une économie mixte
B. la Suède règle son économie par la nationalisation
C. la Suède est un État socialiste qui dépend de la planification centralisée
D. le système économique de la Suède met en valeur plutôt l'entreprise publique que l'entreprise privée

10. Les mesures du gouvernement suédois qui seraient TRÈS DÉCEVANTES pour un partisan des principes d'une économie centralisée se trouvent dans les

A. affirmations I et V seulement
B. affirmations II et IV seulement
C. affirmations I, III et V
D. affirmations II, III et IV

---

11. L'idée que les institutions de la société et les événements de l'histoire sont essentiellement déterminés par des forces économiques est LE PLUS étroitement associée aux

A. auteurs marxistes
B. dictateurs fascistes
C. économistes keynésiens
D. philosophes anarchistes

12. Une mesure gouvernementale qui serait TRÈS PROBABLEMENT interprétée par les partisans d'une économie de marché comme une mesure socialiste est de décréter une loi pour

A. empêcher les monopoles
B. imposer des contrôles des prix et des salaires
C. mettre fin à l'universalité des programmes de sécurité sociale
D. autoriser la vente des entreprises nationales

13. L'existence de monopoles dans une économie d'entreprise privée indique un potentiel pour

A. la réussite des hommes d'affaires qui ont l'esprit d'entreprise
B. l'élimination de crises pour les biens de consommation
C. un marché qui peut rester autorégulateur
D. des prix sur le marché qui ne reflètent pas l'offre et la demande

Utilisez les sources ci-dessous pour répondre aux questions 14 à 18.

SOURCE I

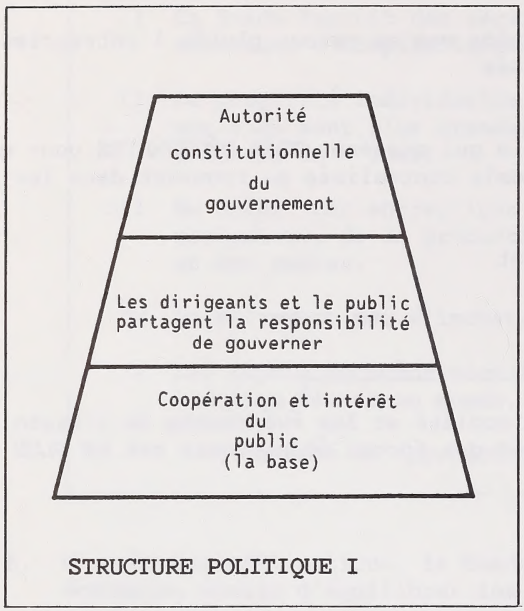

SOURCE II

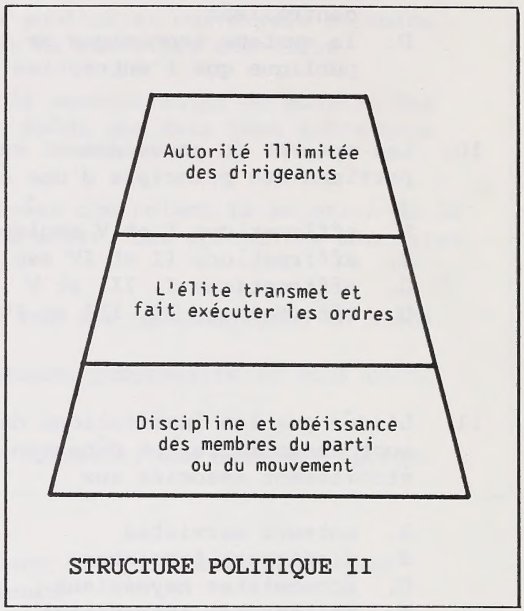

SOURCE III

> Le droit du public -- dans des circonstances soigneusement établies et légales -- d'engager et de congédier ses chefs politiques est une nécessité absolue. Si ce droit est violé ou disparaît, la liberté du régime n'est plus.

SOURCE IV

> Le rôle des masses peut se résumer en une expression: la discipline qui implique l'obéissance aveugle des citoyens. Le citoyen devient un pion anonyme, un instrument qui est manipulé au gré du chef omnipotent.

-- toutes les sources sont tirées de *Ideologies in World Affairs*

14. Laquelle des questions suivantes est LA PLUS CLAIREMENT soulevée par les sources?

A. Les gouvernements devraient-ils intervenir dans l'économie?
B. Les simples particuliers devraient-ils prendre part au governement?
C. Les chefs devraient-ils être choisis selon leur compétence?
D. Le pouvoir législatif du gouvernement devrait-il être distinct du pouvoir exécutif?

15. Les valeurs LES PLUS importantes servant de base à la structure de la source II seraient

A. la concurrence et l'égalité politiques
B. la liberté et la participation politiques
C. l'efficacité gouvernementale et la soumission des citoyens
D. la flexibilité gouvernementale et la coopération des citoyens

16. Les structures politiques données dans les sources I et II soutiennent la généralisation que

A. les chefs politiques sont élus à la majorité
B. l'autorité politique est entre les mains de ceux qui sont les plus aptes à gouverner
C. l'autorité politique peut venir de différentes sources dans la société
D. les chefs politiques exercent un contrôle absolu sur la prise de décision du gouvernement

17. Un partisan des idéals démocratiques serait LE PLUS EN DÉSACCORD avec les idées contenues dans

A. les sources I et II
B. les sources I et III
C. les sources II et III
D. les sources II et IV

18. Quelle solution au problème de l'apathie des électeurs un partisan de la structure politique de la Source I FAVORISERAIT-IL LE PLUS FORTEMENT?

A. L'adoption de lois qui exigent que toutes les personnes qui ont le droit de vote s'inscrivent et votent aux élections

B. Le lancement d'une enquête pour déterminer qui a exercé son droit de vote aux dernières élections

C. L'introduction de programmes de conscientisation publique pour informer les citoyens de leurs responsabilités démocratiques

D. L'adoption de lois qui exigent l'adhésion à un parti politique avant de pouvoir voter

---

Utilisez la citation ci-dessous pour répondre aux questions 19 et 20.

> Nos lois assurent la justice également pour tous dans leurs conflits privés et notre opinion publique accueille et honore le talent dans tout domaine de réalisation pour des raisons d'excellence seulement. Nos citoyens occupent des fonctions publiques et privées et ne se laissent pas absorber par leurs différentes affaires au point que cela interfère avec leur connaissance des événements publics. Nous décidons ou agitons, soigneusement et en personne, toutes les questions de politique, sontenant que les actions sont vouées à l'échec quand elles sont entreprises sans avoir été discutées.
>
> -- cité dans *Contemporary Political Ideologies*

19. Quelle forme de gouvernement est LA PLUS CLAIREMENT identifiée par la citation?

    A. Une démocratie directe
    B. Une démocratie parlementaire
    C. Une démocratie constitutionnelle
    D. Une démocratie représentative

20. Quel problème immédiat détruirait LE PLUS PROBABLEMENT le fonctionnement du système décrit dans la citation?

    A. Conflit d'intérêt
    B. Favoritisme politique
    C. Chefs incompétents
    D. Apathie publique

---

21. Un gouvernement qui veut introduire des programmes qui sont typiques d'une économie d'entreprise publique soutiendrait que le bien-être des citoyens est LE MIEUX desservi en

    A. élevant les profits des entreprises
    B. prenant des mesures collectives
    C. ne se mêlant pas du secteur privé
    D. encourageant le succès des entrepreneurs

22. Historiquement, la réduction des tarifs douaniers comme politique gouvernementale a été utilisée pour

    A. favoriser l'établissement de nouvelles industries
    B. empêcher l'écoulement du surplus des marchandises étrangères
    C. protéger les fabricants de la concurrence étrangère
    D. susciter une plus grande efficacité de la part des fabricants locaux

Utiliser la source ci-dessous pour répondre à la question 23.

> Toutes les distinctions de classe disparaîtront et toute la production se concentrera dans une vaste association composée de toute la nation. À ce moment-là, les pouvoirs publics, l'État, perdront leur caractère politique actuel.
>
> Cité dans *The Shaping of Western Society*

23. Ce passage est tiré de quelle source primaire?

    A. *Mein Kampf* d'Adolf Hitler
    B. *Recherches sur la nature et les causes de la richesse des nations* d'Adam Smith
    C. *Le Manifeste du parti communiste* de Karl Marx
    D. *Le Contrat social* de Jean-Jacques Rousseau

---

24. Quelle mesure gouvernementale pour contrôler l'inflation croissante et la croissance économique trop rapide les économistes keynésiens soutiendraient-ils?

    A. Nommer un comité de planification centrale pour réglementer l'expansion des entreprises

    B. Permettre des fluctuations sur le marché pour amener une récession

    C. Augmenter l'impôt sur le revenu des particuliers et diminuer les dépenses fiscales

    D. Couper les impôts sur le revenu des particuliers et augmenter les dépenses fiscales

25. Lequel des énoncés suivants explique LE MIEUX pourquoi un système judiciaire indépendant est un défenseur des droits des minorités au Canada?

    A. Les juges dépendent de l'appui de la masse pour maintenir leur poste et par conséquent la pression publique encourage la justice et l'égalité.

    B. Les juges ne peuvent pas être révoqués pour leurs décisions et par conséquent ils ne craignent pas les représailles politiques.

    C. Les juges sont nommés dans les démocraties pour servir d'opposition au gouvernement au pouvoir.

    D. Les juges appartiennent habituellement aux groupes minoritaires et montrent de l'intérêt pour ces groupes.

26. Les pleins pouvoirs en 1933 étaient importants pour le leadership d'Hitler en Allemagne parce que cela

    A. permettait une activité antisémite illimitée
    B. supprimait le contrôle présidentiel sur son pouvoir
    C. encourageait la formation des mouvements de jeunesse nazis
    D. fournissait l'appui économique dont avait besoin le parti nazi

Utilisez l'information ci-dessous pour répondre aux questions 27 à 29.

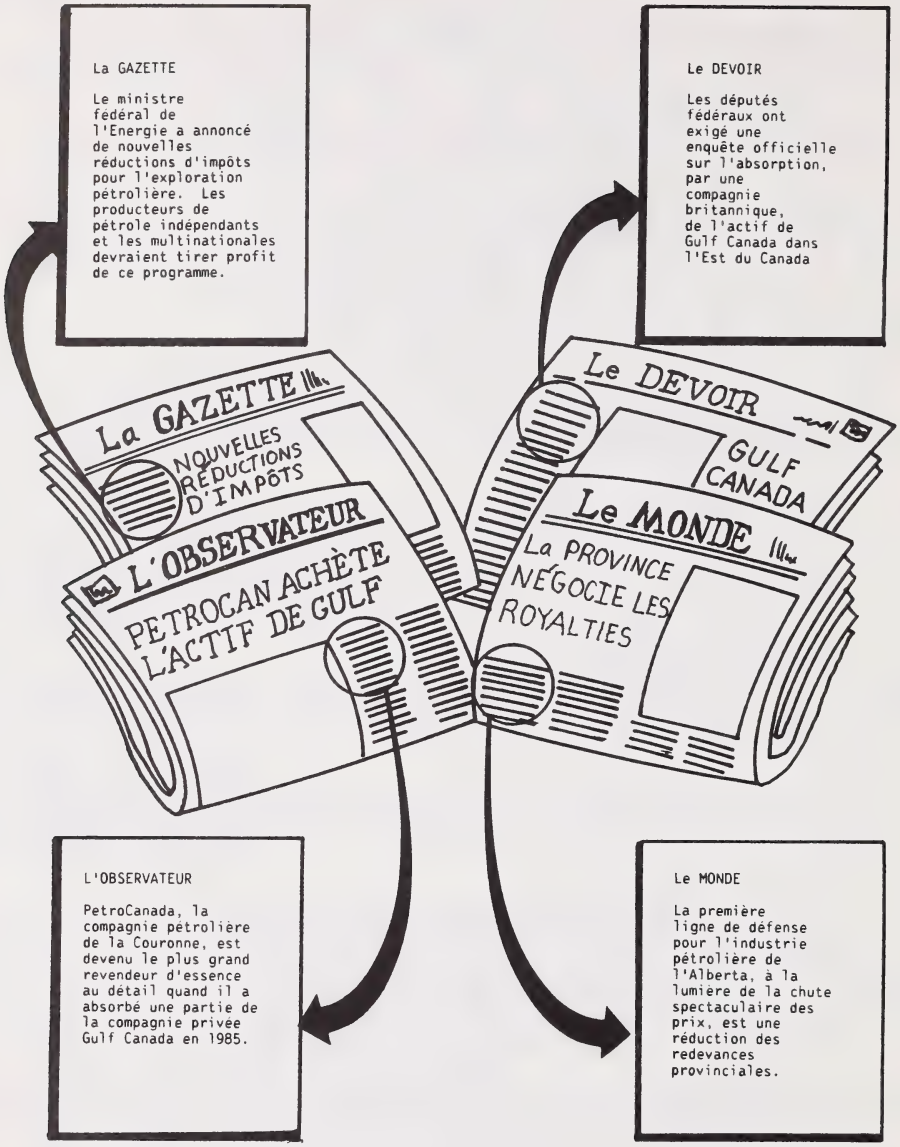

27. Un industriel du pétrole qui attache de la valeur à l'initiative individuelle réagirait LE PLUS favorablement aux nouvelles

A. du DEVOIR et de l'OBSERVATEUR
B. de l'OBSERVATEUR et du MONDE
C. du MONDE et de LA GAZETTE
D. de LA GAZETTE et du DEVOIR

28. Un Canadien qui est nationaliste sur le plan économique et qui soutient l'entreprise publique serait LE PLUS encouragé par les nouvelles

A. du DEVOIR et de l'OBSERVATEUR
B. de l'OBSERVATEUR et du MONDE
C. de LA GAZETTE et du MONDE
D. du DEVOIR et de LA GAZETTE

29. Les quatre nouvelles abordent la façon dont les gouvernements au Canada ont essayé

A. de compter sur les redevances de l'industrie pétrolière
B. d'empêcher les étrangers de devenir propriétaires de l'industrie pétrolière
C. de nationaliser l'industrie pétrolière
D. d'intervenir dans le fonctionnement de l'industrie pétrolière

---

30. Le consommateur individuel dans un régime d'entreprise publique modèle est assuré

A. de la sécurité économique
B. de l'abondance économique
C. de la variété des produits
D. de la compétitivité des marchés

31. La participation dirigée comme technique de dictature s'efforce

A. d'équilibrer le gouvernement par la majorité avec les droits de la minorité
B. d'équilibrer la liberté individuelle avec la sécurité nationale
C. de créer des droits égaux sans permettre d'esprit de dissension
D. de créer l'apparence du pouvoir sans donner de pouvoir

32. Quelle politique gouvernementale se trouve LE PLUS communément dans des économies à orientation de marché?

A. Prévoir des primes gouvernementales pour l'industrie privée
B. Mettre sur pied des programmes économiques nationaux à long terme
C. Introduire des contrôles des prix et des salaires
D. Établir des quotas de production industrielle

Utilisez les opinions ci-dessous pour répondre aux questions 33 et 34.

INTERLOCUTEUR I

Aspirer à la liberté est fondamental à la nature humaine. Par conséquent, les citoyens d'une nation ne peuvent pas être heureux, prospères ou satisfaits dans toute forme de société qui les réprime en tant qu'individus ou limite leur liberté personnelle dans un sens spirituel ou matériel.

-- le président d'une société américaine, 1950

INTERLOCUTEUR II

La liberté sans aucune restriction aboutirait finalement au chaos. C'est dans la retenue, dans la maîtrise de soi que la démocratie trouve sa plus belle expression. Plus nous ferons preuve de ces qualités, moins nous aurons besoin de l'intervention de l'autorité dans nos vies.

-- l'ambassadeur de Tchécoslovaquie en Yougoslavie, 1951

33. L'interlocuteur I exprime un point de vue en faveur de

A. faire ressortir le collectivisme dans un régime politique
B. faire ressortir l'individualisme dans un régime politique
C. garantir le contrôle gouvernemental sur les élans anti-sociaux des individus
D. garantir les droits démocratiques de la majorité aux dépens de ceux de la minorité

34. L'interlocuteur II croit qu'un manque de restriction de la liberté individuelle aboutirait à

A. la tyrannie
B. l'anarchie
C. la démocratie
D. l'autocratie

---

35. Le devoir primordial des citoyens dans une économie fasciste serait

A. de déterminer qui sera à la tête du gouvernement central
B. de participer à la prise de décision décentralisée
C. d'accepter les activités régulatrices du gouvernement
D. de soutenir la nationalisation de toute l'industrie

36. Pendant la première décennie du XXe siècle, les politiques coloniales en Afrique du Nord et en Extrême-Orient ont été responsables

A. de l'accroissement du recours à la sécurité collective pour résoudre les conflits
B. de l'accroissement des tensions entre les grandes puissances en Europe
C. que la Russie ait été mêlée davantage aux affaires européennes
D. que les États-Unis aient maintenu leurs politiques isolationnistes

37. Promouvoir un équilibre européen des forces par le maintien d'un système d'alliances était un objectif clé de la politique étrangère

A. du chancelier Bismarck d'Allemagne
B. du dirigeant soviétique Lénine
C. du président Wilson des États-Unis
D. du président de Gaulle de France

38. L'assassinat de l'archiduc François-Ferdinand en 1914 constituait un danger particulier pour la paix en Europe à cause

A. de la garantie de neutralité de la Belgique par la Grande-Bretagne
B. des différences idéologiques entre les grandes puissances
C. des tensions soulevées par l'agitation dans les Balkans
D. de la préparation du Plan Schlieffen du côté allemand

Utilisez la citation ci-dessous pour répondre à la question 39.

> Rappelez-vous que le peuple allemand est l'élu de Dieu. Sur moi, l'empereur d'Allemagne, l'Esprit de Dieu est descendu. Je suis Son épée, Ses armes et Son vice-régent...L'Allemagne doit avoir sa place au soleil.
>
> -- l'empereur Guillaume II, 4 août 1914

39. L'empereur vante l'importance pour l'Allemagne de réaliser sur le plan national

A. l'indépendance
B. la prospérité
C. le prestige
D. l'unité

Utilisez les sources ci-dessous pour répondre aux questions 40 a 42.

SOURCE I

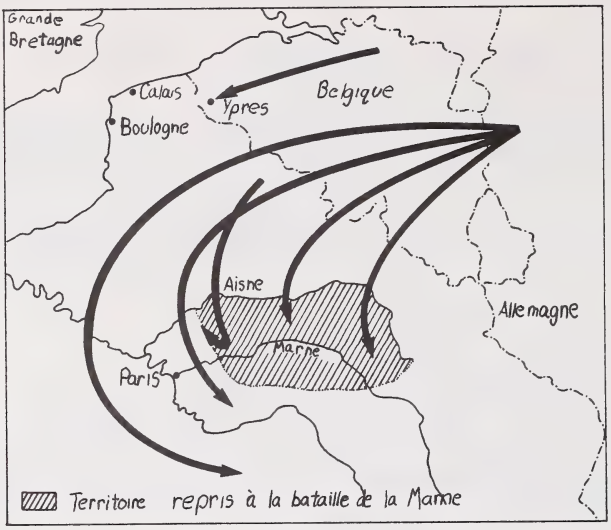

SOURCE II

DÉPART EN EXCURSION
Scène: Guichet à __ (censuré)

Voyageur Wilhelm: "PREMIÈRE CLASSE POUR PARIS - L'employé: "LIGNE BLOQUÉE"
Wilhelm: "ALORS POUR VARSOVIE" - L'employé: "LIGNE BLOQUÉE"
Wilhelm: "EH BIEN, POUR CALAIS ALORS?" - L'employé: "LIGNE BLOQUÉE"
Wilhelm: "ZUT! IL FAUT QUE J'AILLE QUELQUE PART! J'AI PROMIS À MON PEUPLE DE PARTIR!"

40. Les deux sources traitent de l'incapacité de l'armée allemande à

A. vaincre les Français à Ypres
B. réussir à envahir la Belgique
C. empêcher un blocus naval britannique
D. écraser la France en suivant le Plan Schlieffen

41. La politique étrangère critiquée par le dessin dans la Source II est

A. l'agression contre les États voisins
B. l'endiguement des pouvoirs expansionnistes
C. l'apaisement des nations hostiles
D. l'isolement des conflits mondiaux

42. Quel a été un résultat immédiat des événements mentionnés par les deux sources?

A. Le recours aux blocus et contre-blocus maritimes
B. La guerre de tranchées et d'impasses
C. La guerre caractérisée par les assauts de cavalerie et la mobilité des troupes
D. Les bombardements aériens et l'emploi de gaz toxiques contre les populations civiles

---

43. La création de la Yougoslavie en 1919 par suite du démembrement de l'empire austro-hongrois est un exemple

A. de l'établissement de sphères d'influence
B. de reconnaissance de l'autodétermination
C. d'encouragement de l'impérialisme
D. de réalisation de l'endiguement

Utilisez les dessins historiques ci-dessous pour répondre aux questions 44 à 49.

DESSIN I

DESSIN II

DESSIN III



DESSIN IV



-- toutes les sources viennent de *Heckling Hitler*

44. "Les nations devraient-elles poursuivre des politiques de conciliation?" Quel dessin prend la position la plus claire sur cette question?

A. Dessin I
B. Dessin II
C. Dessin III
D. Dessin IV

45. Si vous étudiiez les événements qui ont inspiré le Dessin III, quelle nouvelle vous serait LA PLUS utile pour votre recherche?

A. Les Nazis condamnent les sanctions de la Société des Nations contre l'Italie.
B. La machine de guerre nazie déclenche la *Blitzkrieg*.
C. Tentative nazie de putsch à Munich.
D. Signature de l'accord germano-soviétique.

46. Quel dessin fait allusion à un événement dans lequel les différences idéologiques ont été passées sous silence afin de gagner un avantage national?

A. Dessin I
B. Dessin II
C. Dessin III
D. Dessin IV

47. Si les événements indiqués par les sources étaient mis par ordre chronologique, quel serait cet ordre?

A. Dessins I, II, III et IV
B. Dessins II, I, III et IV
C. Dessins III. II, I et IV
D. Dessins IV, III, II et I

48. Laquelle des conclusions suivantes est LA MIEUX soutenue par les événements mentionnés dans les dessins?

A. Les traités sont souvent ignorés quand les temps changent.
B. Les traités sont nécessaires pour éviter l'anarchie internationale.
C. Les traités sont un moyen efficace d'établir un équilibre des forces.
D. Les traités sont un moyen satisfaisant de maintenir la sécurité nationale.

49. Quelle méthode de sauvegarder la stabilité a été largement ignorée comme effet préventif potentiel contre les événements mentionnés dans les dessins?

A. La conciliation des dictateurs agressifs
B. La diplomatie secrète des chefs de gouvernement
C. L'annexion d'anciennes sphères d'influence
D. L'appareil de sécurité collective constitué par la Societé des Nations

---

Utilisez la carte ci-dessous pour répondre aux questions 50 et 51.

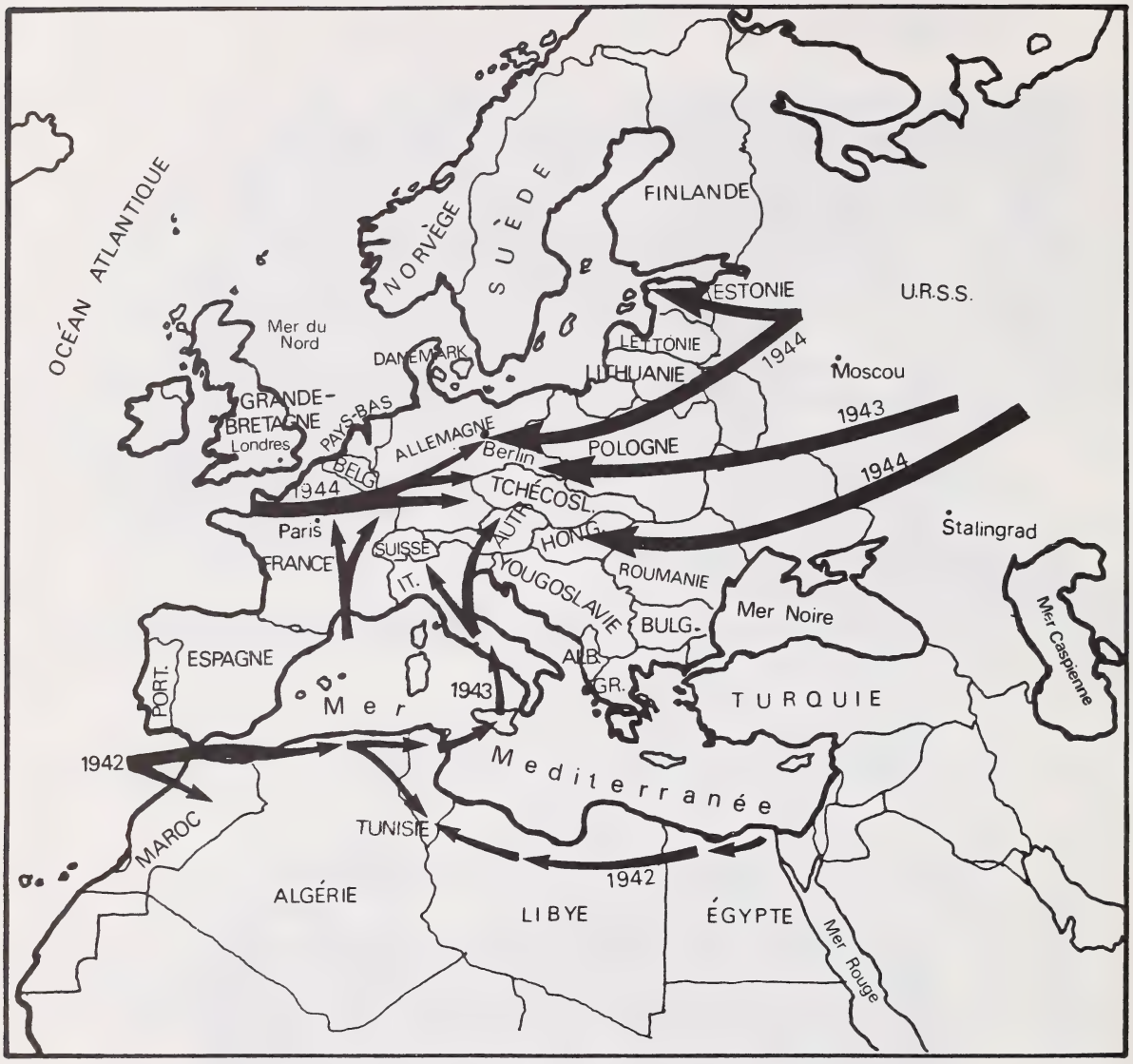

50. Quel est le MEILLEUR titre pour cette carte?

A. Expansion soviétique en Europe de l'Est
B. Offensives nazies pendant la Seconde Guerre mondiale
C. Plans soviétiques pour la conquête de l'Allemagne nazie
D. Offensives alliées pendant la Seconde Guerre mondiale

51. Le résultat immédiat des faits nouveaux indiqués sur la carte était

A. la reddition inconditionnelle de l'Allemagne nazie
B. l'effondrement de la coopération militaire alliée
C. l'assujettissement de la majeure partie de l'Europe par les nazis
D. la domination du Sud de l'Europe centrale par l'U.R.S.S.

---

52. Le gouvernement américain croyait que la stabilité de l'Europe occidentale après la Seconde Guerre mondiale dépendait surtout de la réalisation

A. de la démocratie parlementaire
B. de l'autodétermination
C. du redressement économique
D. de l'unité politique

Utilisez l'affirmation ci-dessous pour répondre à la question 53.

> De Stettin sur la Baltique à Trieste sur l'Adriatique, un rideau de fer est descendu sur tout le continent.
>
> -- Sir Winston Churchill

53. Sir Winston Churchill décrit une situation dans laquelle

A. les États-Unis avaient répondu à l'influence soviétique en Europe de l'Est en créant l'Organisation du traité de l'Atlantique Nord

B. les États-Unis avaient répondu à l'influence soviétique en Europe de l'Est en déplaçant leur armée vers la frontière soviétique

C. l'Union soviétique avait constitué les pays satellites en une organisation connue sous le nom de Cominform

D. l'Union soviétique avait établi une sphère d'influence en Europe de l'Est

---

54. "La doctrine Truman est-elle une réponse souhaitable et efficace à l'expansion communiste?" Cette question a amené un conflit entre

A. la sauvegarde d'un équilibre des forces et l'accroissement du prestige national

B. le maintien de la neutralité et la sauvegarde de la sécurité collective

C. la réalisation de l'endiguement et le respect de la souveraineté nationale

D. la soutien de la conciliation et la sauvegarde de la paix

55. Les supranationalistes regarderaient la guerre de Corée comme un événement important dans les relations internationales parce que cette guerre

A. a empêché l'expansion impériale japonaise de s'étendre à la Chine continentale
B. a contenu l'expansion de l'agression communiste en Asie du Sud-Est
C. a compris des forces armées fournies par une organisation mondiale
D. a abouti à la division de la Corée en deux États séparés

56. Les mesures prises par les nations directement affectées par les événements survenus à Sarajevo (1914), à Berlin (1948), et à Cuba (1962) sont LE PLUS étroitement liées à la poursuite de quelle politique étrangère?

A. Conciliation
B. Coexistence
C. Isolationnisme
D. Politique de la corde raide

57. Une critique qui s'applique à la fois à l'efficacité de la Société des Nations et à l'emploi du véto au Conseil de sécurité de l'ONU est

A. qu'il y a un besoin d'unanimité parmi les grandes puissances avant qu'une mesure puisse être prise

B. que les membres se fient aux alliances régionales pour la sécurité collective

C. qu'il y a un manque de procédures quelconques pour les sanctions économiques

D. qu'il y a un manque de puissances mondiales dans l'organisation

58. "Chaque nation indépendante est un État autonome libre de la domination extérieure et ayant le droit de déterminer ses propres politiques." Cet énoncé définit LE MIEUX le principe

A. de souveraineté nationale
B. de supranationalisme
C. de territorialité
D. d'impérialisme

Utilisez l'opinion ci-dessous pour répondre aux questions 59 et 60.

> Quand les nations se groupent pour se défendre, ne contribuent-elles pas en réalité à provoquer la guerre qu'elles sont en train d'essayer d'éviter?
>
> -- dans *Talking About War*

59. L'auteur conteste l'idée

A. de conciliation
B. d'endiguement
C. d'isolationnisme
D. d'équilibre des forces

60. Un examen des dossiers du passé de quelle alliance amènerait un historien à donner tort à l'auteur?

A. L'Organisation du traité de l'Atlantique Nord
B. L'Axe Rome-Berlin-Tokyo
C. La Triple-Alliance
D. La Triple-Entente

---

61. Une des causes principales de l'intervention américaine au Viêt-nam était que les Américains croyaient à

A. la dissuasion mutuelle
B. la théorie des dominos
C. la sécurité collective
D. l'équilibre des forces

Utilisez les positions suivantes pour répondre aux questions 62 à 66.

POSITIONS SUR LA RÉALISATION D'UN ORDRE MONDIAL

INTERLOCUTEUR I

Je crois qu'un monde bipolaire offre le plus grand potentiel pour assurer la paix et la sécurité mondiales. Deux superpuissances diviseraient le monde et contrôleraient les blocs de nations opposés. Chacune serait retenue dans ses visées agressives par la crainte de la force militaire de l'autre.

INTERLOCUTEUR II

J'estime qu'un monde régional basé sur des accords entre nations ayant des intérêts culturels, géographiques et économiques mutuels offre la meilleure solution pour minimiser le conflit. Si des mesures agressives sont prises par les nations, une action collective devrait être employée contre celles-ci pour régler les différends.

INTERLOCUTEUR III

Selon moi, un monde multipolaire, où le gouvernement de chaque nation contrôle ses propres ressources et défend sa sécurité nationale offre le plus grand degré de liberté pour le citoyen du monde. Chaque nation devrait s'abstenir d'interférer dans les affaires internes des autres.

INTERLOCUTEUR IV

Un monde supranational où toutes les nations établissent en commun une autorité et des lois universellement acceptées est certainement la solution la plus pratique pour éliminer tout conflit mondial. Toutes les nations devraient accepter l'arbitrage international de leurs différends.

-- adaptation de l'oeuvre
des politicologues Voskian et Pagonis

62. Le conflit entre l'intérêt national et des préoccupations mondiales apparaît LE PLUS clairement dans la comparaison entre les

A. interlocuteurs I et II
B. interlocuteurs II et III
C. interlocuteurs II et IV
D. interlocuteurs III et IV

63. La position de quel interlocuteur attirerait LE PLUS un partisan des systèmes d'alliances comme moyen de sauvegarder la paix?

A. Interlocuteur I
B. Interlocuteur II
C. Interlocuteur III
D. Interlocuteur IV

64. Les quatre sources traitent de la façon dont une nation peut LE MIEUX

A. contribuer à l'efficacité des organisations internationales de maintien de la paix
B. protéger sa sécurité nationale et maintenir la paix dans le monde
C. négocier une alliance régionale pour accroître sa sécurité nationale
D. adhérer aux règles du droit international pour préserver la paix

65. La conséquence LA PLUS probable de l'adoption du modèle décrit par l'Interlocuteur IV serait

A. l'augmentation du nombre de différends d'importance secondaire entre les pays
B. l'augmentation du nombre des alliances défensives
C. l'expansion d'une organisation comme l'ONU
D. l'expansion de la course aux armements nucléaires

66. Un défenseur de la position de l'Interlocuteur I serait FORT PROBABLEMENT en faveur de faire partie d'une organisation comme

A. le pacte de Varsovie
B. les Nations unies
C. le Commonwealth des nations
D. la Communanté économique européenne

---

67. "Seule une nation assez forte pour faire face à l'agression peut préserver sa paix et sa stabilité." Un défenseur de ce point de vue s'opposerait LE PLUS PROBABLEMENT

A. à la dissuasion
B. au désarmement
C. à l'équilibre des forces
D. aux sphères d'influence

68. Comme membre d'une Force d'urgence des Nations unies, le Canada a envoyé des troupes

A. à Chypre
B. à Cuba
C. en Afghanistan
D. aux îles Falkland

69. Les négociations SALT I entre les États-Unis et l'Union soviétique ont contribué à

A. établir des sphères d'influence
B. organiser une alliance
C. imposer l'endiguement
D. faciliter la détente

70. En devenant membre du GATT, le Canada a montré son engagement vis-à-vis de l'objectif de politique étrangère qui vise à

A. sauvegarder la souveraineté
B. favoriser la stabilité économique
C. protéger les ressources naturelles
D. maintenir l'équilibre militaire

PARTIE B: RÉDACTION

INSTRUCTIONS

Ne choisissez qu'UN des deux sujets qui suivent pour votre dissertation. Si vous traitez les deux sujets, seul le premier sera noté.

N'OUBLIEZ PAS D'INDIQUER LE SUJET QUE VOUS AVEZ CHOISI À L'ENDROIT PRÉVU AU DOS DU LIVRET D'EXAMEN.

Choisissez le sujet dans lequel vous êtes le plus compétent. Les deux sujets seront notés selon les mêmes critères.

LISEZ ATTENTIVEMENT TOUTES LES PARTIES DE LA QUESTION.

Votre dissertation doit être faite dans la partie réservée à cet effet dans le livret d'examen.

Utilisez les pages indiquées BROUILLON pour votre plan et votre brouillon.

Les pages indiquées PROPRE doivent contenir votre travail final.

Utilisez un stylo à encre bleue ou noire.

Cette partie RÉDACTION compte pour 30% de la note totale.

SUJET A

DISSERTATION

Certains croient que le contrôle gouvernemental total de l'économie est nécessaire pour empêcher l'instabilité. D'autres croient que les gouvernements ne devraient intervenir dans l'économie que pour combattre les problèmes économiques tels que l'inflation ou le chômage. D'autres encore s'opposent à l'idée de toute intervention gouvernementale dans l'économie, préférant laisser les forces du marché rétablir la stabilité économique.

Rédiger une dissertation sur la question: LE GOUVERNEMENT CANADIEN DEVRAIT-IL INTERVENIR DANS L'ÉCONOMIE PENDANT LES PÉRIODES D'INSTABILITÉ ÉCONOMIQUE?

LA RÉPARTITION DES POINTS SERA BASÉE SUR LES CRITÈRES SUIVANTS

– Description exacte et complète d'un ou plusieurs exemples ou cas pertinents tirés de votre connaissance du programme d'études sociales	(10 points)
– Description réfléchie d'autres positions sous-jacentes	(5 points)
– Défense logique et persuasive de la position choisie	(10 points)
– Qualité de la langue et de l'expression	(5 points)
TOTAL	30 points

N'OUBLIEZ SURTOUT PAS D'INDIQUER LE SUJET QUE VOUS AVEZ CHOISI À L'ENDROIT PRÉVU AU DOS DU LIVRET D'EXAMEN.

SUJET B

DISSERTATION

Au cours du XXe siècle, certaines nations ont établi des sphères d'influence en dominant des nations plus faibles. Elles croyaient que leurs intérêts nationaux et la stabilité internationale étaient le mieux servis par leur contrôle de ces régions. D'autres nations se sont opposées à la création de sphères d'influence. Elles croyaient que ce genre de politique limitait la souveraineté des nations faibles, créait des tensions qui menaçaient la paix mondiale et assurait que tout conflit s'étende à beaucoup d'autres nations.

Rédiger une dissertation sur la question: LES NATIONS DEVRAIENT-ELLES ÉTABLIR DES SPHÈRES D'INFLUENCE POUR RÉALISER LA STABILITÉ INTERNATIONALE?

LA RÉPARTITION DES POINTS SERA BASÉE SUR LES CRITÈRES SUIVANTS

- Description exacte et complète d'un ou plusieurs exemples ou cas pertinents tirés de votre connaissance du programme d'études sociales	(10 points)
- Description réfléchie d'autres positions sous-jacentes	(5 points)
- Défense logique et persuasive de la position choisie	(10 points)
- Qualité de la langue et de l'expression	(5 points)
TOTAL	30 points

N'OUBLIEZ SURTOUT PAS D'INDIQUER LE SUJET QUE VOUS AVEZ CHOISI À L'ENDROIT PRÉVU AU DOS DU LIVRET D'EXAMEN.

CREDITS

Sources 6 - 10	Dans *Approaches to Political and Economic Systems* par Jean-Claude Couture, Victor Lehman et Dennis Nosyk (Globe, 1983) pp. 115-123.
Sources 14 - 18	Dans *Ideologies in World Affairs* (Blaisdell Publishing Company c 1967). Reproduit avec la permission de John Wiley & Sons, Inc.
Sources 19 - 20	Dans *Contemporary Political Ideologies* (Boston: Little Brown & Co.). Reproduit avec la permission de Little Brown & Co.
Source 23	Dans *The Shaping of Western Society* par Edwin Fenton et John M. Good, Eds. (Holt, Rinehart & Winston, 1974) p. 321.
Sources 33 - 34	C.E. Wilson. Dans *Vital Speeches of the Day*, Nov. 1950, Vol. 17, p. 86. Reproduit avec la permission de Vital Speeches of the Day.
	Dr. Josef Korbel. Dans *Vital Speeches of the Day*, Fév. 1951, Vol. 17, p. 375. Reproduit avec la permission de Vital Speeches of the Day.
Source 39	Kaiser Wilhelm II, 4 août 1914. Reproduit avec la permission de Greenhaven Press, Inc.
Sources 40 - 42	Carte de Derek Heater dans *Our World This Century* (Don Mills, Ontario: Oxford University Press). Reproduite avec la permission d'Oxford University Press.
	Dessin de *Punch*, November 4, 1914. Reproduit avec la permission de Punch Magazine.
Sources 44 - 49	Dessin de Clifford Berryman. Reproduit avec la permission de *The London Standard*.
	Dessin de Charles G. Werner dans *The Daily Oklahoman* (Oklahoma City, Oklahoma). Copyright 1938, the Daily Oklahoman. Reproduit avec la permission de The Daily Oklahoman.
	Fitzpatrick. "The Source" dans *Heckling Hitler* (Orbis Publishing Limited). Reproduit avec l'autorisation de Harry Chesler Collection, Fairleigh Dickinson University Library, Madison, N.J.
	Dessin de David Low dans *The Evening Standard*, July 9, 1941. Reproduit avec la permission de *The London Standard*.
Sources 59 - 60	Dans *The Science of War and Peace*, par Robin Clark dans *Talking About War* par Pat Hodgson (Wayland, 1979) p. 14.
Sources 62 - 66	Ohannes Voskian et Louis Pagonis. Dans *War and War Prevention* par Roberta Moore, Joseph T. Moore (Rochelle Park, New Jersey: Hayden Book Company, Inc.). Reproduit avec la permission de Roberta Moore et Joseph T. Moore.

DATE DE RETOUR

F255 O

INDICATE YOUR CHOICE OF TOPIC

CHECK ONE

TOPIC A ☐

TOPIC B ☐

FOR DEPARTMENT USE ONLY

M1 ☐ M2 ☐ M3 ☐

FOR DEPARTMENT USE ONLY

Études Sociales 30

University of Alberta Library
0 1620 0969 0908

(LAST NAME) ☐☐☐☐☐☐☐☐☐☐☐☐☐☐☐☐☐☐☐☐

(FIRST NAME) ☐☐☐☐☐☐☐☐☐☐☐☐☐☐☐☐

DATE OF BIRTH: Y ☐☐ M ☐☐ D ☐☐

SEX: ☐

PERMANENT MAILING ADDRESS: _____

(Apt./Street/Ave./P.O. Box) (Village/Town/City) (Postal Code)

SCHOOL CODE: ☐☐☐☐ SCHOOL: _____ SIGNATURE: _____

FOR DEPARTMENT USE ONLY

Études Sociales 30